Extra oefenen uitrekenen hoeveel geld je terugkrijgt

Lesdoel: Ik kan uitrekenen hoeveel geld je terugkrijgt.

voorbeeld

Het kost € 54,95.



Je geeft € 70,00.

Je krijgt terug: € 15,05.

€	5	4,	9	5	+	€	0,	0	5	=	€	5	5,	0	0	
€	5	5,	0	0	+	€	1	5,	0	0	=	€	7	0,	0	0
€	0,	0	5	+	€	1	5,	0	0	=	€	1	5,	0	5	

1. Vul aan met centen. € 54,95 + € 0,05 = € 55,00
2. Vul aan met euro's. € 55,00 + € 15,00 = € 70,00
3. Vul het bedrag in wat je terugkrijgt. € 0,05 + € 15,00 = € 15,05

1 Wat krijg je terug? Gebruik zo min mogelijk munten en biljetten.
Kleur de munten en biljetten.

Je geeft

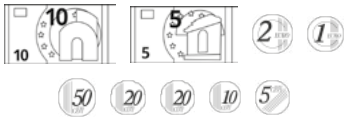

Je geeft

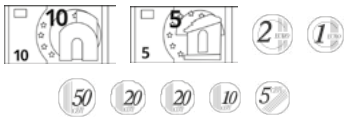

Je geeft

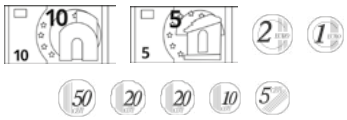

Je geeft

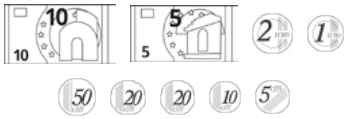

Nano © Uitgeverij Zwijsen B.V. - www.zwijsen.nl/lesmethodes/nano/

2

Hoeveel krijg je terug? Reken uit in je schrift.

€ 53,50 — Je geeft € _____

€ 26,15 — Je geeft € _____

€ 44,45 — Je geeft € _____

€ 54,35 — Je geeft € _____

3

Je betaalt steeds met € 50,00. Klopt het bedrag dat je terugkrijgt?
Reken uit in je schrift.

€ 16,80	Je krijgt terug: € 32,20.	ja / nee	Je moet terugkrijgen: € _____
€ 43,45	Je krijgt terug: € 6,55.	ja / nee	Je moet terugkrijgen: € _____
€ 24,55	Je krijgt terug: € 25,45.	ja / nee	Je moet terugkrijgen: € _____
€ 36,95	Je krijgt terug: € 13,15.	ja / nee	Je moet terugkrijgen: € _____
€ 47,85	Je krijgt terug: € 2,25.	ja / nee	Je moet terugkrijgen: € _____

4

Je betaalt steeds met € 100,00. Hoeveel krijg je terug? Reken uit in je schrift.

Totaal € 92,15 / Scan	Je krijgt terug: € _____	Totaal € 84,40 / Scan	Je krijgt terug: € _____
Totaal € 94,50 / Scan	Je krijgt terug: € _____	Totaal € 87,75 / Scan	Je krijgt terug: € _____
Totaal € 98,35 / Scan	Je krijgt terug: € _____	Totaal € 95,95 / Scan	Je krijgt terug: € _____

Nano © Uitgeverij Zwijsen B.V. - www.zwijsen.nl/lesmethodes/nano/

5

Hoeveel heb je gegeven? Reken uit in je schrift.

Aantal artikelen
Totaal € 66,50
Je krijgt terug: € 3,50.
Je gaf € _____

Aantal artikelen
Totaal € 17,45
Je krijgt terug: € 2,55.
Je gaf € _____

Aantal artikelen
Totaal € 55,95
Je krijgt terug: € 24,05.
Je gaf € _____

Aantal artikelen
Totaal € 23,65
Je krijgt terug: € 26,35.
Je gaf € _____

Aantal artikelen
Totaal € 32,85
Je krijgt terug: € 7,15.
Je gaf € _____

Aantal artikelen
Totaal € 41,90
Je krijgt terug: € 8,10.
Je gaf € _____

6

Wat kun je kopen voor € 60,00? Hoeveel krijg je terug?
Reken uit in je schrift.

plant 1 + pot 1 + zak 1
prijs: € 17,50 + € 20,50 + € 2,50 = € 40,50
Je krijgt terug: € _____

plant ____ + pot ____ + zak ____
prijs: € _____
Je krijgt terug: € _____

plant ____ + pot ____ + zak ____
prijs: € _____
Je krijgt terug: € _____

plant ____ + pot ____ + zak ____
prijs: € _____
Je krijgt terug: € _____

Nano © Uitgeverij Zwijsen B.V. - www.zwijsen.nl/lesmethodes/nano/

check out

Hoeveel krijg je terug? Teken en reken uit.

Je geeft

€ _____

Je geeft

€ _____

Nano © Uitgeverij Zwijsen B.V. - www.zwijsen.nl/lesmethodes/nano/